שאלון 582

פרק 28

פתרון בוידאו של בחינות 2015

מועד חורף 1
קיץ מועד א 4
קיץ מועד ב 7

בגרות חורף 2015:

פרק ראשון – גאומטריה אנליטית, וקטורים, טריגונומטריה במרחב, מספרים מרוכבים (66$\frac{2}{3}$ נקודות)

ענה על שתיים מהשאלות 1-3 (לכל שאלה 33$\frac{1}{3}$ נקודות).

שים לב! אם תענה על יותר משתי שאלות, תיבדקנה רק שתי התשובות הראשונות שבמחברתך.

1) נתון מעגל שמשוואתו $x^2+y^2=25$.
המעגל חותך את ציר ה-x בנקודות A ו-B.
MN הוא מיתר במעגל, המאונך לציר ה-x.

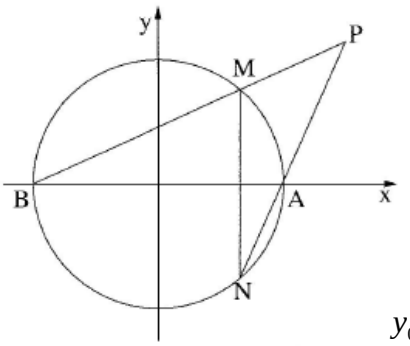

א. הישרים MB ו- NA נפגשים בנקודה $P(x,y)$ כמתואר בציור (MN אינו מונח על ציר ה-y).

(1) נסמן: $M(x_0,y_0)$. הבע באמצעות x_0 ו-y_0 את משוואת הישר MB, ואת משוואת הישר NA.

(2) הראה כי המקום הגאומטרי של הנקודות $P(x,y)$, הנוצרות באופן שתואר, מקיים את המשוואה: $y^2=x^2-25$.

ב. אם המיתר MN מונח על ציר ה-y, מצא את רדיוס המעגל החסום במרובע MBNA.

הערה: הפתרון של סעיף ב אינו תלוי בפתרון של סעיף א.

2) נתון משולש שקדקודיו הם: $C(1,1,1)$, $B(-2,-5,-5)$, $A(-10,3,11)$.
גובה המשולש לצלע AB הוא CD.

א. מצא את השיעורים של הנקודה D.

ב. נתונה הנקודה $E(-1,5,-2)$.
מהי הזווית בין הישר CE:

(1) לישר AB?

(2) לישר BC?

(3) למישור ABC?

ג. חשב את הזווית בין הישר ED לבין המישור ABC. נמק.

3) ענה על הסעיפים הבאים:

א. פתור את המשוואה: $|z|i+2z=\sqrt{3}$, z הוא מספר מרוכב.

ב. המספר המרוכב z_1 הוא הפתרון של המשוואה שבסעיף א.

z_1 הוא קדקוד הראש של משולש שווה-שוקיים, החסום במעגל שמרכזו בראשית הצירים. z_2 ו-z_3 הם שני הקדקודים האחרים של המשולש.

נתון: $z_2=1$. המספר המרוכב w מקיים: $w=z_1\cdot z_2\cdot z_3$.

חשב את הסכום: $w+w^2+w^3+w^4+\cdots+w^{4n}$.

n הוא מספר טבעי.

פרק שני – גדילה ודעיכה, פונקצית חזקה, פונקציות מעריכיות ולוגריתמיות ($33\frac{1}{3}$ נקודות)

ענה על <u>אחת</u> מהשאלות 4-5.

שים לב! אם תענה על יותר משאלה אחת, תיבדק רק התשובה הראשונה שבמחברתך.

4) נתונה הפונקציה $f(x)=\sqrt{2^{x-m}+2^{m-x}}$ ונתונה הפונקציה $g(x)$.

המקיימת: $g(x)=f'(x)\cdot f(x)$, $g(2)=-\frac{3}{4}\ln 2$, m הוא פרמטר.

ידוע כי הפונקציה $g(x)$ עולה לכל x.

מצא את השטח המוגבל על ידי הגרף של הפונקציה $g(x)$ ועל ידי הצירים (מצא ערך מספרי).

5) נתונה פונקציית הנגזרת: $f'(x)=\frac{\ln(-x)+2}{x}$.

א. מצא את תחום ההגדרה של פונקציית הנגזרת $f'(x)$.

ב. מצא את השיעורים של נקודות הקיצון של פונקציית הנגזרת $f'(x)$ וקבע את סוגה.

ג. מצא את שיעור ה-x של נקודת הקיצון של הפונקציה $f(x)$, וקבע את סוגה. לפונקציות $f(x)$ ו- $f'(x)$ יש אותו תחום הגדרה.

ד. הפונקציה $g(x)$ מקיימת: $g(x)=-\frac{1}{f'(x)}$.

היעזר בסעיפים הקודמים, ומצא:

(1) את תחום ההגדרה של $g(x)$.

(2) את השיעורים של נקודת הקיצון של $g(x)$, וקבע את סוגה.

תשובות סופיות:

1) א. i. $\text{NA: } y=\frac{y}{5-x_0}x-\frac{5y_0}{5-x_0}$, $\text{MB: } y=\frac{y_0}{x_0+5}x+\frac{5y_0}{x_0+5}$

א. ii. הוכחה ב. $\sqrt{12.5}=3.535$

2) א. $D(-4.5,-2.5,0)$ ב. i. $90°$ ב. ii. $90°$ ב. iii. $90°$

ג. $39.23°$

3) א. $z=\frac{\sqrt{3}}{2}-\frac{1}{2}i$ ב. 0

4) 3.0625

5) א. $x<0$ ב. $\min\left(-\frac{1}{e},-e\right)$ ג. $x_{\min}=-\frac{1}{e^2}$

ד. i. $x<0$, $x\neq-\frac{1}{e^2}$ ד. ii. $\min\left(-\frac{1}{e},\frac{1}{e}\right)$

בגרות קיץ 2015 מועד א':

פרק ראשון – גאומטריה אנליטית, וקטורים, טריגונומטריה במרחב, מספרים מרוכבים ($66\frac{2}{3}$ נקודות)

ענה על שתיים מהשאלות 1-3 (לכל שאלה $33\frac{1}{3}$ נקודות).

שים לב! אם תענה על יותר משתי שאלות, תיבדקנה רק שתי התשובות הראשונות שבמחברתך.

1) נתונה פרבולה המקיימת $y^2=2px$, $p>0$.
נקודה D נמצאת על הפרבולה ברביע הראשון במרחק 8 מציר ה-x .

א. הבע באמצעות p את המרחק של הנקודה D מן המדריך של הפרבולה.
מעבירים שני מעגלים:
מעגל ראשון שמרכזו בנקודה D ורדיוסו $p+4$,
מעגל שני שמרכזו במוקד F של הפרבולה.
המעגל השני משיק מבחוץ למעגל הראשון ומשיק גם לציר ה-y .

ב. היעזר בסעיף א, ומצא את משוואת הפרבולה.

ג. נקודה K נמצאת על הפרבולה שאת משוואתה מצאת.
דרך הנקודה K העבירו משיק לפרבולה ואנך למשיק.
המשיק והאנך חותכים את ציר ה-x בנקודות T ו-S בהתאמה.
המרחק בין הנקודה T לנקודה S הוא 16.
מצא את השיעורים של הנקודה K . (מצא את שתי האפשרויות.)
בתשובתך תוכל להשאיר שורש במידת הצורך.

2) נתון ישר ℓ שמשוואתו $\underline{x}=(1,2,-4)+t(1,-2,2)$.
מישור π מאונך לישר ℓ , וחותך את ציר ה-x בנקודה A .
נקודה A נמצאת על הקרן החיובית של ציר ה-x במרחק 8 מראשית הצירים O .
נקודות B ו-C הן נקודות החיתוך של המישור π עם ציר ה-y ועם ציר ה-z בהתאמה.

א. ענה על הסעיפים הבאים:
i. מצא את האורך של כל אחד משש המקצועות של הפירמידה OABC .
ii. האם הפירמידה OABC היא ישרה? נמק.

ב. נקודה D נמצאת על הקטע AC כך ש-OD חוצה-זווית AOC .
מהו המצב ההדדי בין הישר OD לישר BC ? נמק.

3) נתונה המשוואה $z^n = 8$, z הוא מספר מרוכב, $n > 2$.

א. הוכח כי n הפתרונות של המשוואה הם קדקודים של מצולע משוכלל.
המספרים z_0 , z_1 , z_2 , z_3 הם ארבעה קדקודים עוקבים מבין n הקדקודים של המצולע שבסעיף א (לפי סדר המספרים הרשום).
z_0 הוא מספר ממשי וחיובי. z_i נמצא במישור גאוס ברביע הראשון.
נתון: $z_0 \cdot z_1 \cdot z_2 \cdot z_3 = -\sqrt{8}\,i$.

ב. מצא את הערך של n.

פרק שני – גדילה ודעיכה, פונקצית חזקה, פונקציות מעריכיות ולוגריתמיות ($33\frac{1}{3}$ נקודות)

ענה על <u>אחת</u> מהשאלות 4-5.

שים לב! אם תענה על יותר משאלה אחת, תיבדק רק התשובה הראשונה שבמחברתך.

4) נתונה הפונקציה $f(x) = a \cdot x \cdot e^{-\frac{x^2}{8}}$ המוגדרת לכל x. a הוא פרמטר גדול מ-0.

א. הוכח כי הפונקציה $f(x)$ היא פונקציה אי-זוגית.

ב. ענה על הסעיפים הבאים:

i. הבע באמצעות a (במידת הצורך) את השיעורים של נקודות הקיצון של הפונקציה $f(x)$, וקבע את סוגן.

ii. סרטט סקיצה של גרף הפונקציה.

ג. מצא את השטח המוגבל על ידי גרף הפונקציה $f(x)$, על ידי ציר ה-x ועל ידי הישרים $x = 1$ ו-$x = -1$, אם נתון כי $a = 2$.

ד. נתונה הפונקציה $g(x)$ המקיימת: $g(x) = \left[f(x)\right]^2$.
מצא את שיעורי ה-x של נקודות הקיצון של הפונקציה $g(x)$, וקבע את סוגן.

5) נתונה הפונקציה $f(x)=a\cdot x\cdot \ln x-x^2$, a הוא פרמטר גדול מ-0.

א. מצא את תחום ההגדרה של הפונקציה $f(x)$.

ב. הראה כי לפונקציה $f(x)$ יש נקודת פיתול אחת בלבד,
והבע את שיעור ה-x שלה באמצעות a .

ג. איזה מבין הגרפים I , II , III , IV שלפניך מתאים לגרף של פונקציית הנגזרת השנייה $f''(x)$? נמק.

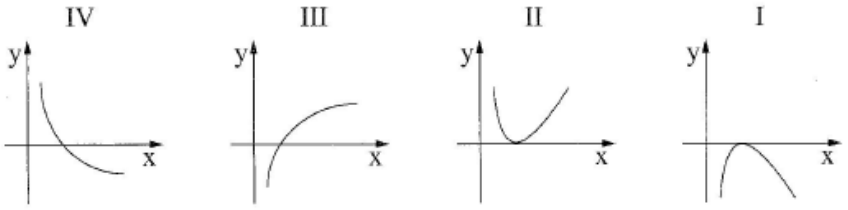

ד. ענה על הסעיפים הבאים:

i. אם שיפוע המשיק בנקודת הפיתול של $f(x)$ שווה ל-0, מצא את הערך של a .

ii. סרטט סקיצה של גרף פונקציית הנגזרת $f'(x)$ עבור הערך של a שמצאת.

iii. האם עבור הערך של a שמצאת, יש לפונקציה $f(x)$ נקודת קיצון? נמק.

ה. מצא עבור אילו ערכים של a שיפוע המשיק בנקודת הפיתול של $f(x)$ גדול מ-0.

תשובות סופיות:

1) א. $\frac{32}{p}+\frac{p}{2}$ ב. $y^2=8x$ ג. $\left(6,\sqrt{48}\right)$, $\left(6,-\sqrt{48}\right)$

2) א. (i). $AO=8$, $BO=CO=4$, $AB=AC=\sqrt{80}$, $BC=\sqrt{32}$
א. (ii). הפרמידה אינה ישרה. ב. מצטלבים.

3) א. הוכחה. ב. $n=8$

4) א. הוכחה. ב. (i). $\min\left(-2,\frac{-2a}{\sqrt{e}}\right)$, $\max\left(2,\frac{2a}{\sqrt{e}}\right)$
ב. (ii). להלן סקיצה:

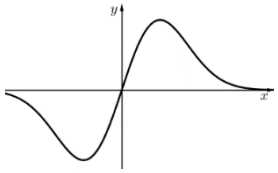

ג. 1.88 ד. $x_{max}=2$, $x_{min}=0$, $x_{max}=-2$

5) א. $x>0$ ב. $x=\frac{a}{2}$ ג. גרף IV.

ד. (i). $a=2$ ד. (ii). להלן סקיצה:

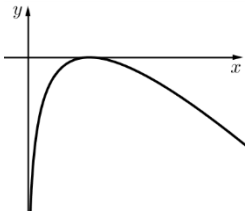

ד. (iii). לא. ה. $a>2$.

בגרות קיץ 2015 מועד ב':

פרק ראשון – גאומטריה אנליטית, וקטורים, טריגונומטריה במרחב, מספרים מרוכבים ($66\frac{2}{3}$ נקודות)

ענה על שתיים מהשאלות 1-3 (לכל שאלה $33\frac{1}{3}$ נקודות).

שים לב! אם תענה על יותר משתי שאלות, תיבדקנה רק שתי התשובות הראשונות שבמחברתך.

1) נתונה הפרבולה $y^2 = 4x$.

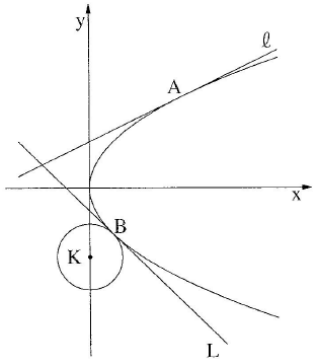

הישרים ℓ ו-L משיקים לפרבולה בנקודות A ו-B בהתאמה.
הנקודה A נמצאת ברביע הראשון והנקודה B נמצאת ברביע הרביעי, כמתואר בציור.
המשיקים נפגשים בנקודה $(-2,1)$.

א. מצא את השיעורים של הנקודה A, ואת השיעורים של הנקודה B.

ב. הפרבולה משיקה בנקודה B למעגל שמרכזו K ונמצא על ציר ה- y (ראה ציור).
מעגל שמרכזו M משיק לציר ה- y בראשית הצירים ומשיק מבחוץ למעגל שמרכזו K. המרכז M נמצא משמאל לציר ה- y.

i. מצא את השיעורים של המרכז K.

ii. מצא את משוואת המעגל שמרכזו M.

תוכל להשאיר שורש בתשובתך.

2) המקצועות OA, OC ו- OO′ של התיבה OABCO′A′B′C′ מונחים על הצירים כמתואר בציור.

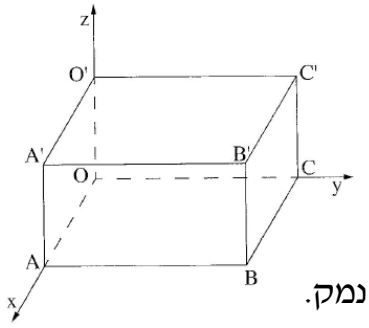

נתון כי המישור $2x + y + 2z - 2m = 0$
עובר דרך הקדקודים A, C, O′. m הוא פרמטר גדול מ- 0.

א. האם הישר BC′ מקביל למישור הנתון או חותך אותו? נמק.

ב. הישר O′M נמצא במישור הנתון, ואינו מתלכד עם הישר O′A.

i. האם הישרים BC′ ו- O′M מקבילים? נמק.

ii. הבע באמצעות m את המרחק בין הישרים BC′ ו- O′M.

דרך הקדקודים C′ ו- B העבירו אנכים למישור ACO′.
האנכים חותכים את המישור בנקודות E ו- F. אורך הקטע EF הוא $2\sqrt{2}$.

ג. מצא את הערך של m.

3) ענה על הסעיפים הבאים:

א. סרטט במערכת צירים את המקום הגאומטרי המקיים: $\left|z^2-3i\right|=\left|z^2-i\right|$.

z הוא מספר מרוכב.

ב. שני מספרים מרוכבים שונים, z_1 ו- z_2, נמצאים על המקום הגיאומטרי שסרטטת.

המרחק של z_1 מראשית הצירים שווה למרחק של z_2 מהראשית.

נתון: $z_1=1+iy_1$ (y_1 הוא מספר ממשי). מצא את הארגומנט של z_2.

פרק שני – גדילה ודעיכה, פונקצית חזקה, פונקציות מעריכיות ולוגריתמיות ($33\frac{1}{3}$ נקודות)

ענה על <u>אחת</u> מהשאלות 4-5.

שים לב! אם תענה על יותר משאלה אחת, תיבדק רק התשובה הראשונה שבמחברתך.

4) נתונה הפונקציה $f(x)=\ln\frac{a+x}{a-x}$. a הוא פרמטר גדול מ- 0.

א. מצא (הבע באמצעות a במידת הצורך):

i. את תחום ההגדרה של הפונקציה $f(x)$.

ii. את שתי האסימפטוטות של הפונקציה $f(x)$ המאונכות לציר ה- x.

iii. את תחומי העלייה והירידה של הפונקציה $f(x)$ (אם יש כאלה).

iv. את השיעורים של נקודות הפיתול של הפונקציה $f(x)$ (אם יש כאלה).

ב. סרטט סקיצה של גרף הפונקציה $f(x)$.

ג. הישר $y=x$ משיק לגרף הפונקציה $f(x)$ בנקודת הפיתול שלה.

לפונקציה $f(x)$ ולפונקציית הנגזרת $f'(x)$ יש אותו תחום הגדרה.

סרטט סקיצה של גרף פונקציית הנגזרת $f'(x)$.

ציין בגרף את הערכים המספריים של האסימפטוטות ושל נקודות החיתוך עם הצירים (אם יש כאלה).

5) נתונה הפונקציה $f(x)=-\frac{4e^x}{e^x-2}+e^x+4$.

א. ענה על הסעיפים הבאים:

i. מצא את תחום ההגדרה של הפונקציה $f(x)$.

ii. מצא את האסימפטוטות של הפונקציה $f(x)$ המאונכות לצירים.

iii. מצא את תחומי העלייה והירידה של הפונקציה $f(x)$ (אם יש כאלה).

iv. מצא את נקודות החיתוך של גרף הפונקציה $f(x)$ עם הצירים.

v. סרטט סקיצה של גרף הפונקציה $f(x)$.

ב. מצא את השטח המוגבל על ידי הגרף של הפונקציה $f(x)$, על ידי הישר $x=-1$, על ידי ציר ה-x ועל ידי ציר ה-y.

ג. נתונה פונקציה המקיימת $F(x)=\int f(x)dx$ בתחום $x>\ln 2$.

מצא את שיעורי ה-x של נקודות הקיצון של הפונקציה $F(x)$ (אם יש כאלה). נמק.

תשובות סופיות:

1) א. $A(4,4)$, $B(1,-2)$ ב. (i). $K(0,-3)$ ב. (ii). $(x+2.47)^2+y^2=6.125$

2) א. מקביל. ב. (i). מצטלבים. ב. (ii). $\frac{2m}{3}$ ג. 2

3) א. להלן סקיצה:

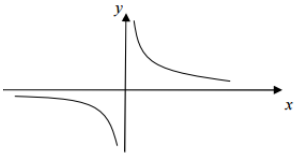

ב. 225°

4) א. (i). $-a<x<a$ א. (ii). $x=-a$, $x=a$

א. (iii). עלייה: $-a<x<a$, ירידה: אין. א. iv. $(0,0)$

ב. להלן סקיצה:

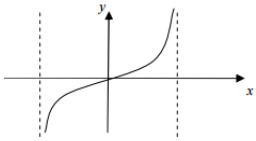

ג. להלן סקיצה:

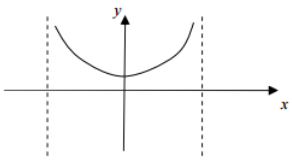

5) א. (i). $x\neq 0.693$ א. (ii). $y=4$ (עבור $x\to-\infty$), $x=0.693$

א. (iii). עלייה: $x>0.693$, $x<0.693$, ירידה: אין.

א. (iv). $(0,9)$, $(1.386,0)$ א. (v). להלן סקיצה:

ב. 6.59 ג. $x_{min}=1.386$

